Prozentsätze im **Säulen–Diagramm**

1.) Von den **500** Schülern einer Schule kommen **48 %** mit dem **Bus** zur Schule, **16 %** fahren mit dem **Fahrrad**, **29 %** kommen zu **Fuß** und der **Rest** wird von den Eltern mit dem **Auto** gebracht.
Stelle die prozentualen Anteile in einem **Säulen**–Diagramm dar!

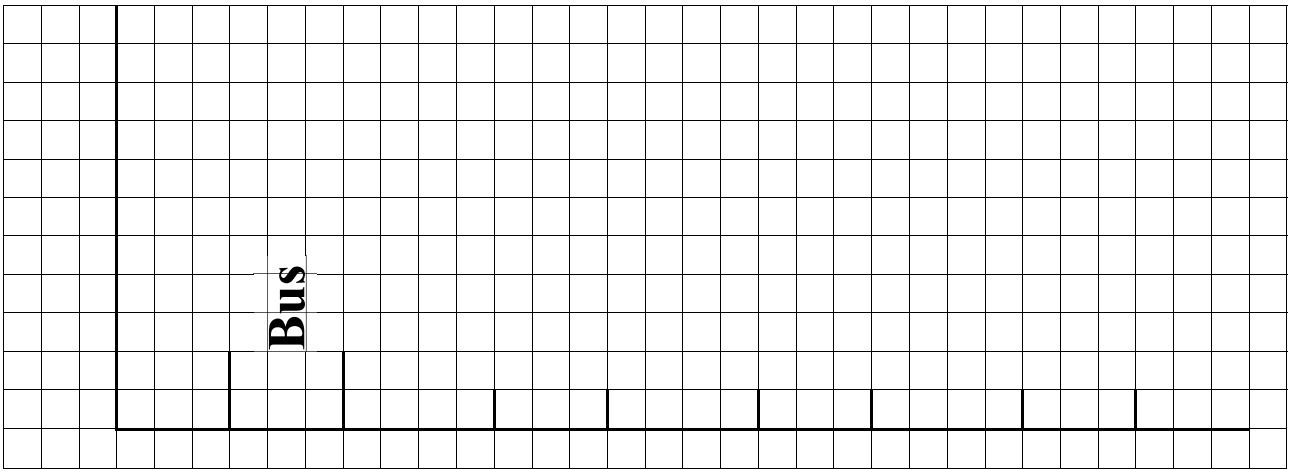

2.) Bei einer Verkehrszählung in Nossen wurden auf einer Straße innerhalb einer bestimmten Zeit **520 Pkw**, **120 Lkw**, **16 Busse** und **144 Motorräder** gezählt.
Stelle die prozentualen Anteile in einem **Säulen**–Diagramm dar!

Gesamtzahl der gezählten Fahrzeuge: .....

Pkw:

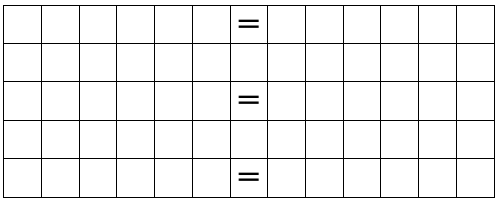

Lkw:

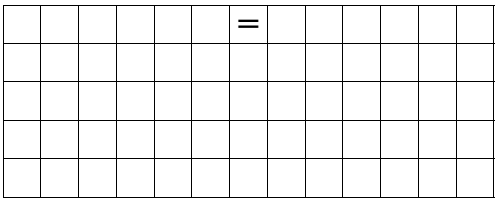

Motorrad:

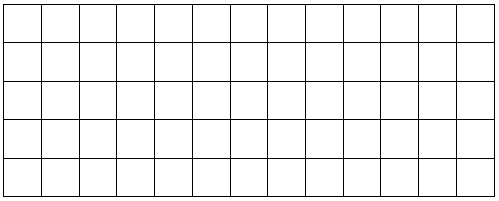

Bus:

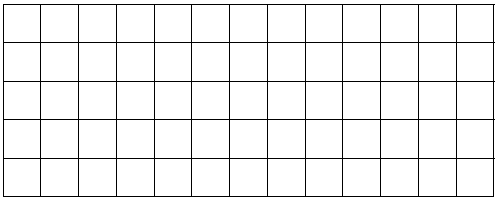

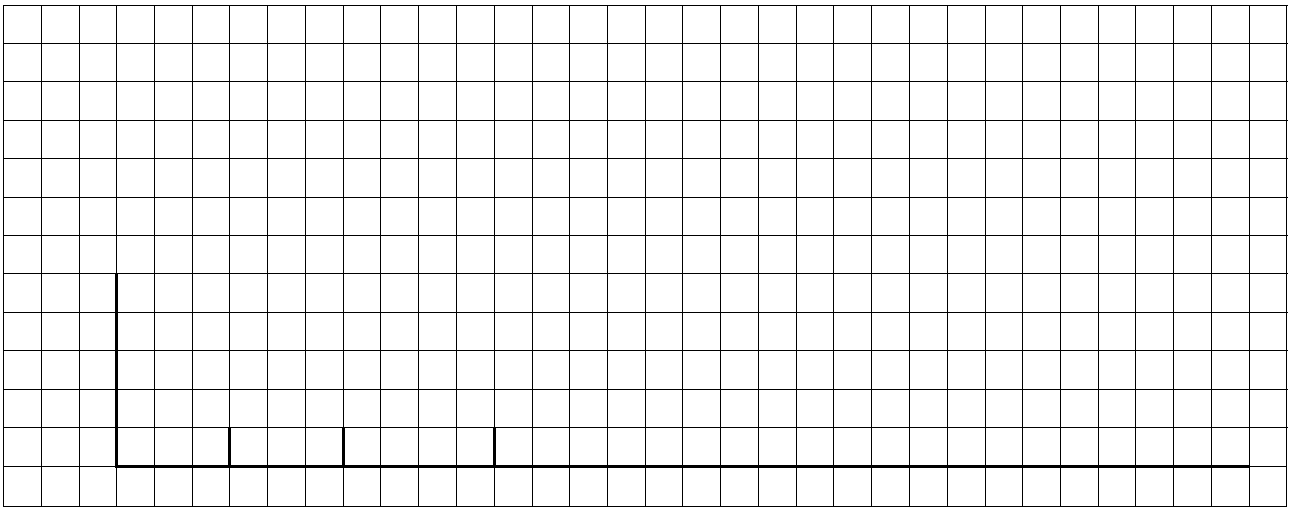

HA: Die Schüler einer Oberschule wurden nach ihrer Lieblingssportart im Sportunterricht befragt.
176 Schüler spielen am liebsten Fußball, 52 Schüler spielen lieber Zwei-Felder-Ball, 76 andere Schüler spielen gern Federball und 96 Schüler skaten am liebsten.
Stelle die **prozentualen Anteile** in einem **Säulen–Diagramm** dar!
Arbeite im Übungs-Teil deines Hefters! Gehe genauso vor wie in der Aufgabe 2 (siehe oben)!

Copyright © Frank Haberecht