Übung: **Flächeninhalt Trapez** (2) (**ohne gegebene** Stücke)

Gegeben sind 4 Trapeze, die Zeichnungen sind maßstabsgerecht.
Bezeichne alle **Ecken** und **Seiten** - die erste Ecke ist jeweils vorgegeben.
Zeichne in jedes Trapez eine **Höhe** auf einer der beiden parallelen Seiten ein und **bezeichne** sie mit h!
Messe die **Länge** der beiden **parallelen Seiten** und die **Länge** der **dazwischenliegenden Höhe**!
Berechne mit diesen Stücken und dem **TR** den **Flächeninhalt**! **Runde** auf **eine** Stelle nach dem Komma!

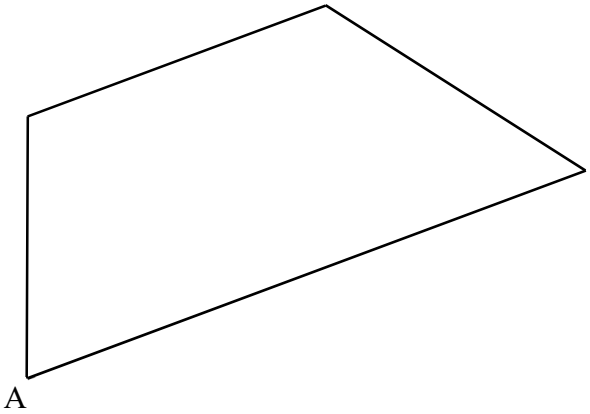

1.) *geg.:* = *und* =

h =

A =

A =

A =

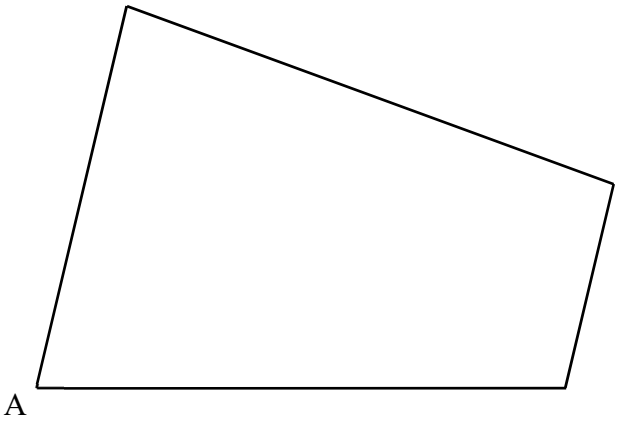

2.) *geg.:* = *und* =

h =

A =

A =

A =

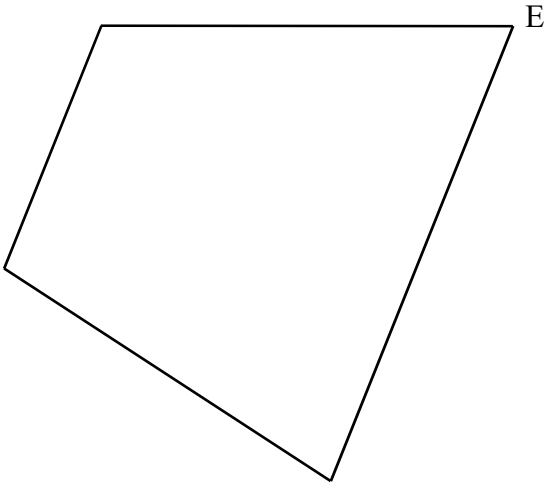

3.) *geg.:* = *und* =

=

A =

A =

=

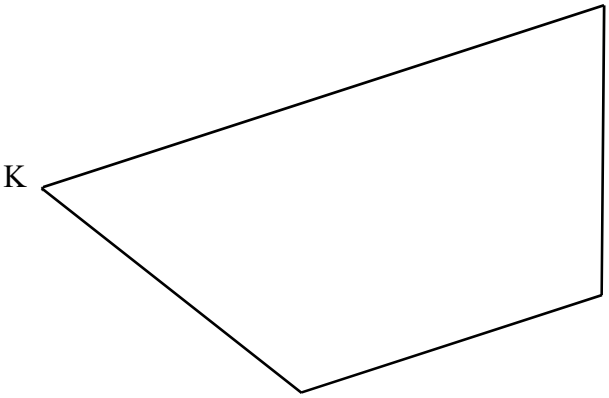

4.) *geg.:* *und*

A =

=

Copyright © Frank Haberecht