Dreiecke ..... : **Flächeninhalt** von **Dreiecken (2)** (**ohne gegebene** Stücke) **(W6)**

Vervollständige die **Bezeichnung** aller **Ecken** und **Seiten** der vorgegebenen Dreiecke!
Zeichne in jedes Dreieck eine **geeignete Höhe** ein und **bezeichne** sie!
Messe die **Länge** der eingezeichneten **Höhe** und die Länge der **dazugehörigen Grundseite**!
Berechne mit den **gemessenen** Stücken und dem **TR** den **Flächeninhalt** mit **ausführlichem** Rechenweg!

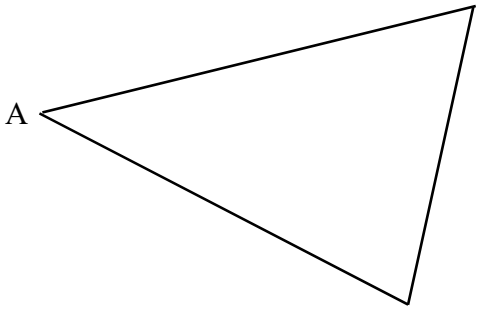

1.) geg.: = und =

A = = =

A = =

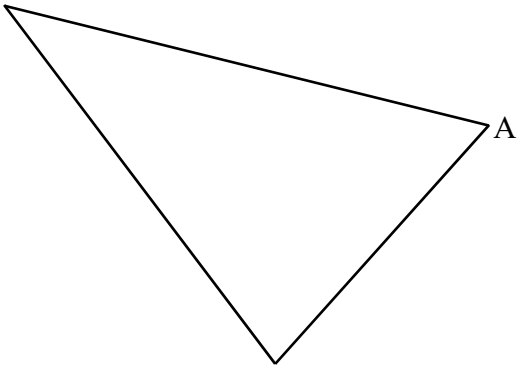

2.) geg.: und =

A = = =

A = =

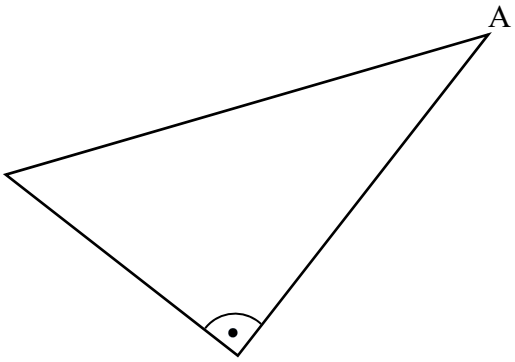

3.) = = = =

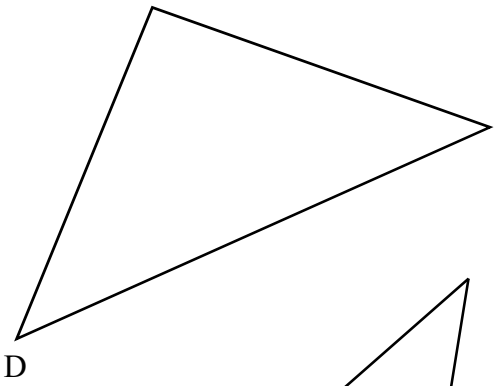

4.)

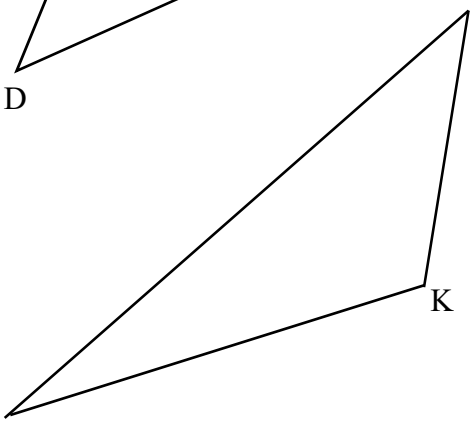

5.)